Prueba práctica:

Como requerimiento básico en la selección de conductores para la Entidad se debe realizar una prueba práctica (urbana y/o rural) que permita conocer los hábitos y habilidades en la conducción. Estas pruebas deben estar basadas en el tipo de vehículo que se va a conducir.

La valoración práctica consta de Inspección y adaptación al vehículo antes de iniciar marcha, manejo de mecanismos de control y en técnica de conducción, comportamiento frente al tránsito, ejecución de maniobras, cumplimiento de señales de tránsito, respeto al peatón y otros actores de la vía, documentación en regla y comparendos pendientes.

Para efectos de la evaluación se debe utilizar el siguiente formato (Anexo):

EVALUACION PRUEBA PRACTICA PARA CONDUCTORES		
SUPERINTENDENCIA DE INDUSTRIA Y COMERCIO		
CONDUCTOR: Luis Norbey Agudelo		
EDAD: 52 años		
DESCRIPCION VARIABLE	CUMPLE	NO CUMPLE
Inspección y adaptación al vehículo antes de iniciar marcha	✓	
Manejo de mecanismos de control y en técnica de conducción	✓	
Comportamiento frente al tránsito	✓	
Ejecución de maniobras	✓	
Cumplimiento de señales de tránsito	✓	
Respeto al peatón y otros actores de la vía	✓	
Licencia de Conducción	✓	
Comparendos Pendientes	✓	
CALIFICACION FINAL	✓	
FIRMA RESPONSABLE EVALUACION	COORDINADOR GRUPO DE GESTION DOCUMENTAL Y RECURSOS FISICOS	
NOMBRE: Ricardo Armol G	JUAN SEBASTIAN DAZA FERNANDEZ	

PRUEBA DE CONOCIMIENTO PARA CONDUCTORES

CONDUCTOR: Luis Norbey Agudelo Osorio

CEDULA: 79417095

FECHA: 26 Nov /2019

CALIFICACIÓN	
TOTAL PREGUNTAS: 58	
IGUAL O MAS DE 45	APROBÓ
MENOS DE 45	NO APROBÓ

RESPUESTAS CORRECTAS: 46

APROBÓ: SI X NO___

Firma Responsable Evaluación **Coordinador Grupo de Gestión Documental y Recursos Físicos**

Nombre: Miguel Angel Zambrano U.

1. Cuál es la manera correcta para realizar los adelantamientos?

a) Por el costado izquierdo del eje de la calzada
b) Por la berma del costado derecho
c) Por el costado derecho del eje de la calzada

2. Cruce regulado es aquel en que existe:

a) Señal PARE o CEDA EL PASO
b) Semáforo intermitente
c) Semáforo funcionando normalmente o agente de tránsito

3. Derecho preferente de paso es:

a) La prerrogativa de un peatón o conductor de un vehículo para proseguir su marcha
b) Virar careciendo de preferencia
c) Virar a la izquierda sin detener la marcha

4. El eje de la calzada es:

b) Dos, conectados entre si
c) Uno

12. El color de las luces que proyectan hacia adelante los vehículos deben ser:

a) Rojas y blancas
b) Blancas o amarillas
c) Rojas o blancas

13. ¿De qué color deben ser las luces de viraje traseras?:

a) Blancas
b) Rojas o amarillas
c) Verdes

14. ¿Qué tipos de vehículos deben llevar luces amarillas frontales, que indiquen claramente el ancho y altura máxima del vehículo?:

a) Todos los vehículos
b) Sólo los de carga
c) Los de carga útil superior a 800 kgrs, y los destinados al transporte colectivo de personas

15. ¿Qué focos o luces se prohíben?:

a) Los neblineros
b) Los busca-caminos
c) Todos los que induzcan a error en la conducción

16. ¿Qué luces debe llevar el vehículo en las vías públicas urbanas?:

a) Luces altas
b) Luces bajas
c) Cualquier tipo de luz

17. Cuando se circule por caminos y vías rurales con luces encendidas y no se encuentre próximo ningún otro vehículo, se utilizarán luces:

a) Altas y bajas
b) Altas
c) Bajas

18. Los vehículos deberán llevar encendidas las luces reglamentarias desde:

a) 1/2 hora antes de la puesta del sol, hasta 1/2 hora antes de su salida
b) 1/2 hora después de la puesta del sol, hasta 1/2 hora antes de su salida
c) Ninguna de las anteriores

19. ¿Qué tipos de luces no se deben usar cuando el vehículo se encuentre en movimiento?:

27. Los vehículos que enfrenten un semáforo con luz roja y flecha verde, podrán:

a) Entrar cuidadosamente al cruce sólo para seguir en la dirección indicada en la flecha verde
b) Entrar cuidadosamente al cruce para continuar directo
c) Ninguna de las anteriores

28. La luz amarilla intermitente del semáforo indica:

a) Pare
b) Precaución
c) Ceda el paso

29. En condiciones normales un vehículo podrá ser conducido marcha atrás sólo:

a) 50 metros
b) 30 metros
c) Para mantener la libre circulación o para incorporarse a ella o estacionar un vehículo

30. Los vehículos que circulen a una velocidad menor que la normal, deberán circular:

a) Por la derecha de la calzada
b) Por la berma
c) Por la izquierda de la calzada

31. En vías de doble tránsito, los vehículos que circulen en sentido opuesto, al cruzarse:

a) Deberán encender las luces bajas
b) Deberán señalizar con los brazos
c) No pasarán sobre el eje de la calzada, demarcado o imaginario

32. El conductor de un vehículo puede sobrepasar a otro por la derecha, cuando:

a) El vehículo, de adelante, va a virar a la derecha
b) El vehículo, de adelante, va a virar a la izquierda
c) Nunca

33. No se podrá adelantar en el siguiente caso:

a) Al aproximarse a un camión
b) Cuando existe eje discontinuo
c) Al aproximarse a la cima de una cuesta

34. ¿Cuál es la distancia que debe mantener un conductor con respecto al vehículo de adelante?

a) 30 metros
b) 100 metros
c) De tres a cinco metros

a) Superficie deslizante, Angostamiento a Ambos Lados, Obligado Derecha
b) Superficie deslizante, Reducción de la calzada, Zona de derrumbe
c) Superficie deslizante, Puente angosto, No Adelantar

40. Indique qué significan estas señales:

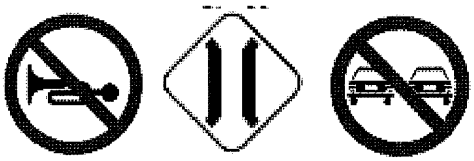

a) Prohibido Pitar, No Entrar, No Adelantar
b) Prohibido Pitar, Reducción de la calzada, Mantenga su Derecha
c) Prohibido Pitar, Puente angosto, No Adelantar

41. Indique qué significan estas señales:

a) No Tocar Bocina, Cruz de San Andrés, Ceda el Paso
b) Conducir con luces bajas, prohibido parquear, No ceda el paso
c) Conducir con luces bajas, Prohibido parquear ni detenerse, prohibido cambiar de calzada

42. Indique qué significan estas señales:



a) Estacionamiento permitido, Velocidad Máxima, Túnel
b) Estacionamiento permitido, Prohibido Adelantar, Curva Cerrada a la Derecha
c) Proximidad de Esquina, velocidad máxima, paso únicamente para vehículo liviano

43. Indique qué significan estas señales:

a) Perfil irregular, Perfil irregular, Perfil irregular

b) Avanzar, porque las instrucciones de un Agente de Tránsito prevalecen sobre las señales del tránsito.
c) Avanzar, sólo si detrás suyo no vienen otros vehículos.
d) Avanzar, sólo si está seguro que la luz roja está próxima a cambiar.

49. La figura muestra una calzada bidireccional. ¿Es correcto el adelantamiento?

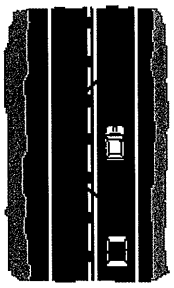

a) Sí
b) No

50. La figura muestra una calzada bidireccional. ¿Es correcto el adelantamiento?

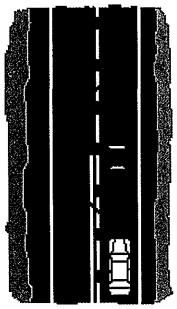

a) Sí
b) No

51. ¿A quién o quiénes cubre el Seguro Obligatorio de Accidentes Personales?

a) Sólo al conductor del vehículo asegurado.
b) Sólo a los pasajeros del vehículo asegurado.
c) Sólo al conductor y pasajeros del vehículo asegurado.
d) Al conductor, a los pasajeros y a cualquier otra persona afectada en un accidente en que participe el vehículo asegurado.

52. ¿Cómo puede Ud. notar una fuga del líquido de frenos?

a) Porque el pedal de freno llega casi hasta el fondo.
b) Porque el pedal de freno tiene poco recorrido.

HOJA DE RESPUESTAS					
RESPUESTAS PRUEBA DE CONOCIMIENTOS					
1	a	✓		30	a ✓
2	C	✓		31	C ✓
3	a	✓		32	c X
4	B	✓		33	C ✓
5	B	X		34	a X
6	B	✓		35	a X
7	a	✓		36	a ✓
8	c	X		37	C ✓
9	C	✓		38	C ✓
10	C	✓		39	a X
11	C	X		40	C ✓
12	B	✓		41	C ✓
13	B	✓		42	C X
14	C	✓		43	a ✓
15	C	✓		44	a X
16	B	✓		45	B ✓
17	B	✓		46	d ✓
18	a	X		47	d X
19	a	✓		48	B ✓
20	a	X		49	B ✓
21	a	✓		50	a ✓
22	b	✓		51	d ✓
23	C	✓		52	a ✓
24	C	✓		53	c ✓
25	a	✓		54	C ✓
26	B	✓		55	B ✓
27	a	✓		56	B ✓
28	B	✓		57	d ✓
29	c	✓		58	C ✓